新北市立鳳鳴國民中學（七年級）（七下）補考題庫

地理科試卷　七　年　　班　　號　姓名：_____

1. （B）通常判別人口組成時，習慣將哪一個年齡結構的人口稱為「人力資源」？
(A) 0～14 歲　(B) 15～64 歲

2. （B）交通越便利的地區，通常越容易吸引人口聚集。根據圖中判斷何處人口密度可能最高？

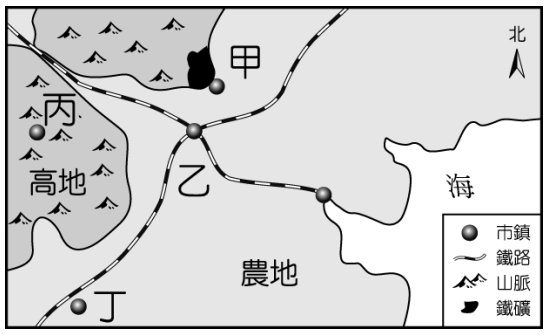

(A)甲　(B) 乙

3. （A）一般而言，產業可分為三級，以下何者屬於第二級產業？
(A)加工製造業　(B)畜牧業

4. （A）畜牧方式因地理環境不同而異。依臺灣的環境條件而言，其畜牧大都屬於何種方式？
(A)欄牧　(B)放牧。

5. （B）「矽谷」是美國高科技產業最早興起的地方，下列哪個縣市最適合比喻為「臺灣矽谷」？
(A)臺北市　(B)新竹市

6. （B）根據經濟部統計，臺灣前十名的國際品牌企業有超過一半為科技廠商。請問：這反映出臺灣目前主要的工業活動特性為何？
(A)原料豐富　(B)技術進步

7. （A）人口金字塔為討論人口結構時最常使用的圖表，請問：在繪製人口金字塔圖時，必須要蒐集哪些重要資料？（甲)年齡分布狀況（乙)男女性別比例　（丙)最高教育程度（丁)種族分布狀況
(A)甲乙　(B)丙丁

8. （B）小宇到桃園國際機場準備出國，發現有許多身穿長袍、包著頭巾的人進入祈禱室內祈禱。請問：這是屬於何種人的宗教信仰？
(A)閩南人　　(B)穆斯林。

9. （A）附圖為臺灣某一產業的活動流程，請由圖判斷該產業應該為何？
(A)酪農業　(B)游牧業

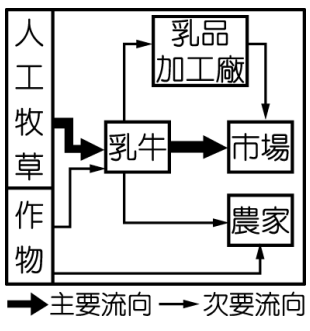

10. （B）人口由鄉村向都市集中的過程稱為什麼？
(A)現代化　(B)都市化

11. （B）為了紓解繁忙的城市內部交通，世界上許多大都會區都利用下列何種交通方式？
(A)航空運輸　(B)捷運系統

12. （B）臺灣離島眾多，其中哪兩個島嶼因為地理位置特殊，成為臺灣重要的軍事前線基地？
(A)澎湖、小琉球　(B)金門、馬祖。

13. （B）在白沙屯媽祖進香活動中，信眾可透過「白沙屯 GPS 即時定位」APP，即時掌握媽祖神轎行進路線，並且清楚記載天氣狀況，附近廁所及交通方式，成為追媽祖的超強利器。請問這項服務主要運用了哪些技術？（甲)郵政（乙)電信
(丙)網際網路（丁)人造衛星
(A)甲乙　(B)丙丁

14. （A）臺灣東部人口較西部稀少的原因，除了因開發較晚之外，還與下列何者關係最密切？
(A)地形阻隔　(B)土壤貧瘠

15. （B）臺灣目前有多個國際商港，與世界各國從事通商貿易。其中貨物吞吐量最大的是哪一個港口？　(A)基隆港　(B)高雄港

16. （A）臺灣本島的四個區域中，哪一個區域因為教育資源較為豐富，而且工商業較為發達，因此教育程度較其他區域高？
(A)北部區域　(B)中部區域

17. （A）政府透過許多方式協助新住民適應臺灣社會，例如建置數位資訊平臺，以多國語文的網頁介面，提供數位學習及文化交流的空間。上述多國語文最可能涵括下列何者？
(A)越南文、印尼文　(B)日文、德文

18. （B）附圖為臺灣鐵路分布圖。圖中路線分布的形狀，主要受到下列何種因素影響？
(A)河川流向
(B)山脈走向

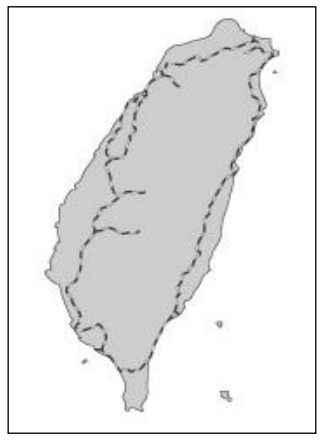

19. （B）運輸方式有陸運、水運、空運、管線運輸等，請問：將荷蘭生產的鬱金香花卉運送到臺灣，最適合的交通方式為何？
(A)鐵路　(B)空運。

20. （A）運輸方式有陸運、水運、空運、管線運輸等，請問：如果要宅配團購美食到某一山區住戶，最適合的交通方式為何？（A)公路　(B)海運